doel 1

▸ Je leert optellen tot en met 100 met de strategie: rijgen met te veel.

start **Reken uit.**

87 + 7 = ... 48 + 5 = ... 58 + 8 = ... 73 + 9 = ...

74 + 8 = ... 56 + 7 = ... 45 + 9 = ... 37 + 7 = ...

hulp

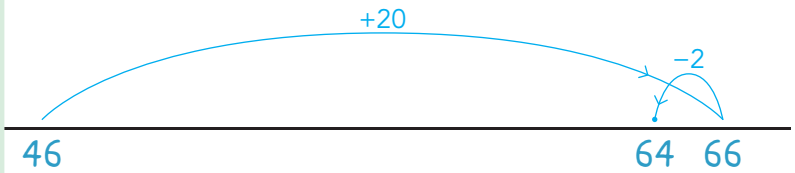

46 + 18 = 64
46 + 20 − 2 = 64

1 **Reken met rijgen met te veel.**
Reken uit op de getallenlijn.

54 + 19 = ... 65 + 28 = ...

47 + 38 = ... 33 + 29 = ...

2 **Bij welke sommen rijg je met te veel?**
Reken alleen die uit, op de getallenlijn.

37 + 19 = ... 38 + 26 = ...

63 + 29 = ... 55 + 44 = ...

hoe ging het?

3 **Welke som hoort erbij? Reken uit op de getallenlijn.**

Anne heeft 58 euro.
Zij krijgt 39 euro op haar verjaardag.
Hoeveel euro heeft zij nu?

som: .....

antwoord: ..... euro

Milan heeft 45 kilometer gereden.
Hij moet er nog 19.
Hoeveel heeft hij dan gereden?

som: .....

antwoord: ..... kilometer

4 **Reken uit.**
Kruis de sommen aan die je uitrekent met rijgen met te veel.

☐ 28 + 28 = ...

☐ 67 + 29 = ...

☐ 48 + 47 = ...

☐ 81 + 14 = ...

5 **Maak sommen bij de getallenlijnen.**

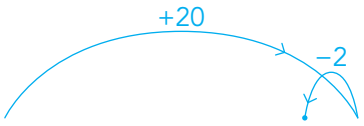

..... + ... = ... en ..... + ... = ...

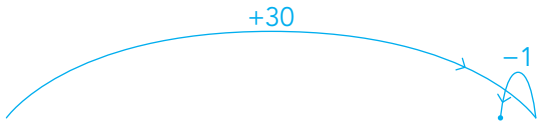

..... + ... = ... en ..... + ... = ...

kijk terug

ga naar taak 1 op bladzijde 4

Bedenk 2 plussommen waarbij rijgen met te veel een handige strategie is.

..... + ... = ... + ... = ...

doel 1

- Je leert optellen tot en met 100 met de strategie: rijgen met te veel.
- Je begrijpt de strategie: rijgen met te veel.

start

Reken uit.

34 + 7 = ...	27 + 7 = ...	79 + 3 = ...	45 + 7 = ...
58 + 8 = ...	56 + 6 = ...	65 + 8 = ...	38 + 8 = ...
43 + 8 = ...	19 + 8 = ...	73 + 9 = ...	29 + 9 = ...

hulp

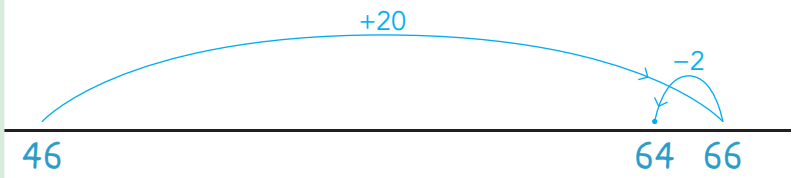

46 + 18 = 64
46 + 20 − 2 = 64

1 **Reken uit.**
Hoeveel euro zit er straks in de kassa?

som: .....

antwoord: ..... euro

2 **Welke som hoort erbij? Reken uit op de getallenlijn.**



Joep is 36 jaar. Bram is 2 jaar ouder.
Hoe oud zijn ze samen?

som: .....

antwoord: ..... jaar

Vandaag fietst Esther 38 kilometer.
Dat is 9 kilometer meer dan gisteren.
Hoeveel kilometer heeft ze in totaal gefietst?

som: .....

antwoord: ..... km

hoe ging het?

3 Reken uit op de getallenlijn.

35 + 18 = ...

56 + 29 = ...

48 + 19 = ...

53 + 28 = ...

62 + 29 = ...

72 + 19 = ...

4 Welke som?

Schrijf ook het antwoord op.

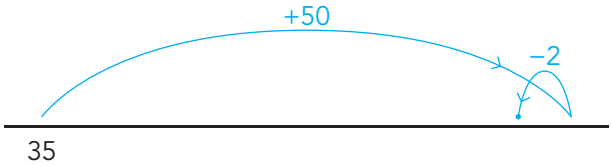

som: .....

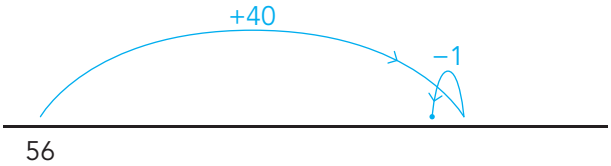

som: .....

5 Reken met rijgen met te veel.

34 + 18 + 18 = ...

45 + 29 + 38 = ...

56 + 18 + 19 = ...

24 + 39 + 29 = ...

kijk terug

ga naar taak 2 op bladzijde 6

Bij 45 + 38 maak je een sprong van 40 en dan 2 eraf. waar | niet waar

doel 2

▸ Je leert aftrekken tot en met 100 met de strategie: rijgen met te veel.

start **Reken uit.**

57 – 30 = ... 88 – 40 = ... 62 – 30 = ... 86 – 40 = ...

99 – 20 = ... 33 – 20 = ... 56 – 20 = ... 61 – 30 = ...

hulp

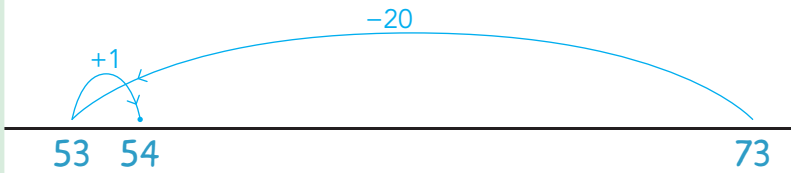

73 – 19 = 54
73 – 20 + 1 = 54

1 **Reken met rijgen met te veel. Reken uit op de getallenlijn.**

93 – 19 = ... 52 – 28 = ...

64 – 38 = ... 86 – 29 = ...

2 **Bij welke sommen reken je met rijgen met te veel?**
Reken alleen die sommen uit, op de getallenlijn.

77 – 19 = ... 68 – 29 = ...

43 – 16 = ... 65 – 39 = ...

hoe ging het?

3 **Welke som hoort erbij? Reken uit op de getallenlijn.**

Boris heeft 42 euro.
Hij koopt een fietsbel van 19 euro.
Hoeveel euro heeft hij nog over?

som: .....

antwoord: ..... euro

Juf Ilse heeft 64 schriften.
Alle 28 kinderen krijgen een schrift.
Hoeveel schriften houdt juf Ilse over?

som: .....

antwoord: ..... schriften

4 **Reken uit.**
Kruis de sommen aan die je uitrekent met rijgen met te veel.

☐ 93 – 28 = ...

☐ 54 – 29 = ...

☐ 76 – 38 = ...

☐ 88 – 47 = ...

5 **Maak sommen bij de getallenlijnen.**

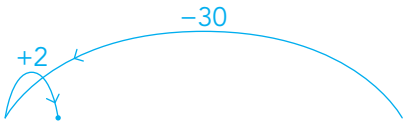

..... – ..... = ... en ..... – ..... = ...

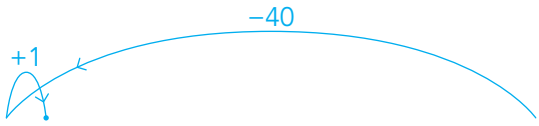

..... – ..... = ... en ..... – ..... = ...

kijk terug

ga naar taak 3 op bladzijde 8

Bij 83 – 38 maak je een sprong van 40 terug en dan 2 erbij. waar | niet waar

doel 2

- Je leert aftrekken tot en met 100 met de strategie: rijgen met te veel.
- Je begrijpt de strategie: rijgen met te veel.

start **Reken uit.**

78 – 40 = ...	67 – 30 = ...	89 – 20 = ...	87 – 20 = ...
45 – 30 = ...	45 – 40 = ...	98 – 40 = ...	65 – 40 = ...
54 – 20 = ...	76 – 20 = ...	76 – 30 = ...	56 – 30 = ...

hulp

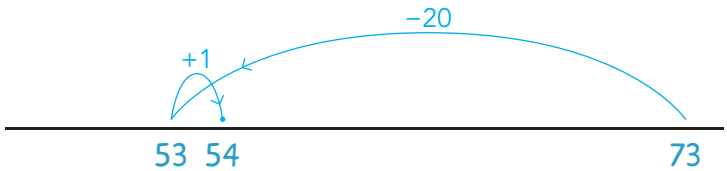

73 – 19 = 54
73 – 20 + 1 = 54

1 **Welke som hoort erbij?**
Reken uit.

som: .....

antwoord: ..... euro

2 **Welke som hoort erbij? Reken uit op de getallenlijn.**

Mijn buurvrouw is 54 jaar.
19 jaar geleden kwam ze naast ons wonen. Hoe oud was ze toen?

som: .....

antwoord: ..... jaar

De pauze duurt 45 minuten.
Er zijn al 18 minuten voorbij.
Hoelang kunnen we nog buiten spelen?

som: .....

antwoord: ..... minuten

hoe ging het?

3 Reken uit op de getallenlijn.

67 – 29 = ...

82 – 48 = ...

73 – 38 = ...

46 – 19 = ...

4 Welke som?

Schrijf ook het antwoord op.

som: .....

som: .....

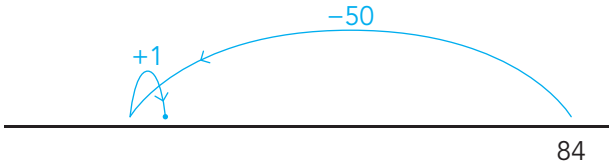

som: .....

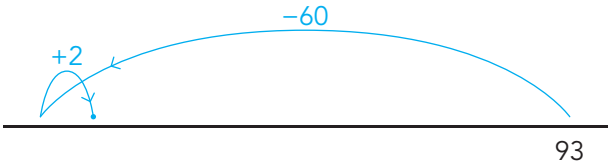

som: .....

5 Wat zit er onder de vlek?

78 – 39 = ●

66 – ● = 38

● – 38 = 8

98 – ● = 49

87 – 48 = ●

● – 58 = 35

● – 69 = 16

● – 38 = 36

53 – ● = 15

kijk terug

ga naar taak 4 op bladzijde 10

Bedenk 2 minsommen waarbij je moet rekenen met rijgen met te veel.

....

doel 1 TEST-JE

1 ○ **Reken uit op de getallenlijn.**

38 + 19 = ...

65 + 28 = ...

56 + 28 = ...

53 + 39 = ...

2 ○ **Welke som hoort erbij? Reken uit op de getallenlijn.**

Kim koopt 65 gram drop.
Eva koopt 18 gram meer.
Hoeveel gram drop koopt Eva?

som: .....

antwoord: ..... gram

3 ○ **Welke som hoort erbij? Hoeveel moeten ze betalen?**

som: .....

antwoord: ..... euro

kun je het nu?

doel 2 TEST-JE

1 ○ **Reken uit op de getallenlijn.**

48 – 19 = ...

83 – 39 = ...

72 – 48 = ...

92 – 69 = ...

2 ○ **Welke som hoort erbij? Reken uit op de getallenlijn.**

Bij Kopi kost een printer 83 euro.
Bij Jopi kost hij 29 euro minder.
Hoeveel kost de printer bij Jopi?

som: .....

antwoord: ..... euro

3 ○ **Welke som hoort erbij? Hoeveel geld blijft er over?**

PRIJSLIJST

oorbellen	19 euro	ketting	28 euro
armband	18 euro	ring	29 euro

som: .....

antwoord: ..... euro

som: .....

antwoord: ..... euro

kun je het nu? ☺ ☺ ☺

doel 3

Je leert alle tafelsommen vlot uitrekenen en vooral 7 × en 8 × van alle tafels.

start **Reken uit.**

2 × 7 = ...	2 × 8 = ...	2 × 6 = ...	2 × 9 = ...
5 × 8 = ...	5 × 7 = ...	5 × 9 = ...	5 × 6 = ...
10 × 6 = ...	10 × 9 = ...	10 × 8 = ...	10 × 7 = ...

hulp

omkeren 7 × 2 8 × 2	omkeren 7 × 3 8 × 3	omkeren 7 × 4 8 × 4	omkeren 7 × 5 8 × 5
omkeren 7 × 6 8 × 6	oefenen 7 × 7 = 49 8 × 7 = 56	oefenen 7 × 8 = 56 8 × 8 = 64	omkeren 7 × 9 8 × 9

1 **Kruis aan als omkeren helpt. Reken alle sommen uit.**

☐ 7 × 2 = ...	☐ 8 × 3 = ...	☐ 8 × 9 = ...
☐ 7 × 4 = ...	☐ 8 × 6 = ...	☐ 7 × 6 = ...
☐ 8 × 8 = ...	☐ 7 × 3 = ...	☐ 8 × 4 = ...
☐ 8 × 5 = ...	☐ 8 × 7 = ...	☐ 7 × 8 = ...
☐ 7 × 9 = ...	☐ 7 × 7 = ...	☐ 7 × 5 = ...

2 **Oefen de keersommen.**

hoe ging het? ☐ ★ ☐ ★★ ☐ ★★★

3 Reken met 1 × meer.

Schrijf in de denkwolk op aan welke steunsom je denkt.

2 × 7 = 14

3 × 7 = ...

3 × ..... = ...

3 × ..... = ...

5 × 7 = 35

6 × 7 = ...

6 × ..... = ...

6 × ..... = ...

4 Reken met 1 × minder.

Schrijf in de denkwolk op aan welke steunsom je denkt.

10 × 7 = 70

9 × 7 = ...

5 × 7 = 35

4 × 7 = ...

9 × ..... = ...

4 × ..... = ...

9 × ..... = ...

4 × ..... = ...

9 × ..... = ...

4 × ..... = ...

5 Bedenk zelf sommen.

..... × ..... = 24 ..... × ..... = 12 ..... × ..... = 18 ..... × ..... = 48

..... × ..... = 24 ..... × ..... = 12 ..... × ..... = 18 ..... × ..... = 48

..... × ..... = 24 ..... × ..... = 12 ..... × ..... = 18 ..... × ..... = 48

..... × ..... = 24 ..... × ..... = 12 ..... × ..... = 18 ..... × ..... = 48

kijk terug

ga naar taak 6 op bladzijde 12

2 keersommen die ik moeilijk vind:

..... × ..... = ... × ..... = ...

2 keersommen die ik makkelijk vind:

..... × ..... = ... × ..... = ...

doel 3

▸ Je leert alle tafelsommen vlot uitrekenen en vooral 7 × en 8 × van alle tafels.

start **Reken uit.**

10 × 8 = ...	10 × 6 = ...	10 × 9 = ...	10 × 7 = ...
5 × 8 = ...	5 × 6 = ...	5 × 9 = ...	5 × 7 = ...
9 × 8 = ...	9 × 6 = ...	9 × 9 = ...	9 × 7 = ...

hulp

omkeren 7 × 2 8 × 2	omkeren 7 × 3 8 × 3	omkeren 7 × 4 8 × 4	omkeren 7 × 5 8 × 5
omkeren 7 × 6 8 × 6	oefenen 7 × 7 = 49 8 × 7 = 56	oefenen 7 × 8 = 56 8 × 8 = 64	omkeren 7 × 9 8 × 9

1 **Hoeveel kost het?**

1 broodje kost 4 euro.

2 broodjes kosten ..... euro. 8 broodjes kosten ..... euro.

4 broodjes kosten ..... euro. 10 broodjes kosten ..... euro.

broodjes	1	2	4	8	10
euro	4				

2 × 4 ....

2 **Reken vanuit de steunsom.**

1 × minder •

1 × meer •

omkeren •

- 4 × 8 = ...
- 3 × 8 = ...
- 7 × 9 = ...
- 9 × 6 = ...
- 8 × 6 = ...
- 6 × 7 = ...

hoe ging het? ☐ ★ ☐ ★★ ☐ ★★★

3 Hoeveel kost het?

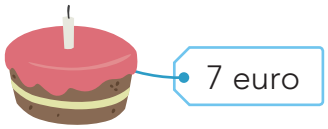

taart	1	5	6	7	10
euro	7				

5 × 7 ....

4 Keer om en reken uit.

3 × 8 = 24

8 × 3 = ...

..... 7 × 3 = ...

..... 7 × 5 = ...

..... 8 × 4 = ...

..... 8 × 9 = ...

..... 7 × 9 = ...

5 Vul in.

dozen	1	2	4	6	8
koeken	9				

pakjes	1	2	3	7	8
stiften	8				

kijk terug

ga naar taak 7 op bladzijde 14

Welke keersom met 7 × draai je altijd om?

.....

doel 4

▸ Je leert alle keersommen vlot uitrekenen.

start

Reken uit.

2 × 6 = ...	2 × 5 = ...	2 × 9 = ...	2 × 7 = ...
5 × 9 = ...	5 × 7 = ...	5 × 6 = ...	5 × 8 = ...
10 × 7 = ...	10 × 4 = ...	10 × 9 = ...	10 × 6 = ...

hulp

Steunsom, die ik weet.

2 × 6
3 × 6 — 1 × meer

4 × 6 — 1 × minder
5 × 6
6 × 6 — 1 × meer

Steunsom, die ik weet.

7 × 6 — omkeren
8 × 6 — omkeren

9 × 6 — 1 × minder
10 × 6

Steunsom, die ik weet.

1 **Kleur de sommen die je uit je hoofd weet groen.**
Kleur de sommen die je vlot kunt uitrekenen met een strategie geel.

1 × 1	1 × 2	1 × 3	1 × 4	1 × 5	1 × 6	1 × 7	1 × 8	1 × 9	1 × 10
2 × 1	2 × 2	2 × 3	2 × 4	2 × 5	2 × 6	2 × 7	2 × 8	2 × 9	2 × 10
3 × 1	3 × 2	3 × 3	3 × 4	3 × 5	3 × 6	3 × 7	3 × 8	3 × 9	3 × 10
4 × 1	4 × 2	4 × 3	4 × 4	4 × 5	4 × 6	4 × 7	4 × 8	4 × 9	4 × 10
5 × 1	5 × 2	5 × 3	5 × 4	5 × 5	5 × 6	5 × 7	5 × 8	5 × 9	5 × 10
6 × 1	6 × 2	6 × 3	6 × 4	6 × 5	6 × 6	6 × 7	6 × 8	6 × 9	6 × 10
7 × 1	7 × 2	7 × 3	7 × 4	7 × 5	7 × 6	7 × 7	7 × 8	7 × 9	7 × 10
8 × 1	8 × 2	8 × 3	8 × 4	8 × 5	8 × 6	8 × 7	8 × 8	8 × 9	8 × 10
9 × 1	9 × 2	9 × 3	9 × 4	9 × 5	9 × 6	9 × 7	9 × 8	9 × 9	9 × 10
10 × 1	10 × 2	10 × 3	10 × 4	10 × 5	10 × 6	10 × 7	10 × 8	10 × 9	10 × 10

2 **Kies 3 keersommen die je nog niet uit je hoofd weet.**
Schrijf de hulpsom of de omkering erbij.

..... × ..... = ...

..... × ..... = ...

..... × ..... = ...

hoe ging het?

3 ★ Kies 3 keersommen die je nog niet uit je hoofd weet.

..... × ..... = ... × ..... = ... × ..... = ...

4 ★ Reken uit.

2 × 3 = ...	3 × 4 = ...	4 × 4 = ...	5 × 5 = ...
2 × 9 = ...	3 × 8 = ...	4 × 7 = ...	5 × 6 = ...
2 × 6 = ...	3 × 9 = ...	4 × 5 = ...	5 × 8 = ...
2 × 8 = ...	3 × 7 = ...	4 × 8 = ...	5 × 7 = ...
2 × 7 = ...	3 × 6 = ...	4 × 9 = ...	5 × 9 = ...

5 ★★ Reken uit.

6 × 3 = ...	7 × 4 = ...	8 × 5 = ...	9 × 2 = ...
6 × 5 = ...	7 × 8 = ...	8 × 3 = ...	9 × 4 = ...
6 × 6 = ...	7 × 5 = ...	8 × 6 = ...	9 × 5 = ...
6 × 9 = ...	7 × 6 = ...	8 × 8 = ...	9 × 9 = ...
6 × 7 = ...	7 × 7 = ...	8 × 7 = ...	9 × 7 = ...

6 ★★★ Reken uit.

zakken	1	2	3	5	7
knikkers	6				

inktvissen	1	4	6	8	10
armen	8				

kijk terug

ga naar taak 8 op bladzijde 16

Deze 3 keersommen heb ik vandaag geleerd:

..... × ..... = ...

..... × ..... = ...

..... × ..... = ...

Deze 3 keersommen ga ik morgen oefenen:

.....

.....

.....

doel 4

▸ Je leert alle keersommen vlot uitrekenen.

start

Reken uit.

2 × 4 = ...	2 × 7 = ...	2 × 8 = ...	2 × 10 = ...
10 × 8 = ...	10 × 5 = ...	10 × 3 = ...	10 × 10 = ...
5 × 5 = ...	5 × 3 = ...	5 × 10 = ...	5 × 2 = ...

hulp

Steunsom, die ik weet.

2 × 6
3 × 6 — 1 × meer

4 × 6
5 × 6 — 1 × minder, 1 × meer
6 × 6

Steunsom, die ik weet.

7 × 6 — omkeren
8 × 6 — omkeren
9 × 6
10 × 6 — 1 × minder

Steunsom, die ik weet.

1 **De tafel van 9.**

Reken uit en kleur de antwoorden.
Wat valt je op?

1	2	3	4	5	6	7	8	9	10
11	12	13	14	15	16	17	18	19	20
21	22	23	24	25	26	27	28	29	30
31	32	33	34	35	36	37	38	39	40
41	42	43	44	45	46	47	48	49	50
51	52	53	54	55	56	57	58	59	60
61	62	63	64	65	66	67	68	69	70
71	72	73	74	75	76	77	78	79	80
81	82	83	84	85	86	87	88	89	90
91	92	93	94	95	96	97	98	99	100

1 × 9 = ...
2 × 9 = ...
3 × 9 = ...
4 × 9 = ...
5 × 9 = ...
6 × 9 = ...
7 × 9 = ...
8 × 9 = ...
9 × 9 = ...
10 × 9 = ...

2 **Kies 3 keersommen die je nog niet uit je hoofd weet.**

Schrijf de hulpsom of de omkering erbij.

..... × ..... = ...

..... × ..... = ...

..... × ..... = ...

hoe ging het?

3 ★ **Kies 3 keersommen die je nog niet uit je hoofd weet.**

..... × ..... = ... × ..... = ... × ..... = ...

4 ★ **Reken uit.**
Kleur de sommen die je meteen weet groen.
Kleur de sommen die je vlot uitrekent met een strategie geel.
Kleur de sommen die je nog moeilijk vindt blauw.

☐ 3 × 3 = ...	☐ 4 × 5 = ...	☐ 6 × 4 = ...	☐ 9 × 5 = ...
☐ 5 × 3 = ...	☐ 5 × 6 = ...	☐ 3 × 8 = ...	☐ 10 × 4 = ...
☐ 5 × 7 = ...	☐ 4 × 8 = ...	☐ 9 × 4 = ...	☐ 3 × 9 = ...
☐ 4 × 4 = ...	☐ 7 × 2 = ...	☐ 8 × 5 = ...	☐ 5 × 9 = ...
☐ 10 × 8 = ...	☐ 2 × 9 = ...	☐ 7 × 3 = ...	☐ 9 × 9 = ...

5 ★★ **Reken uit.**

×	3	6	8
7			
8			
9			

×	2	7	8
4			
5			
6			

6 ★★★ **Kies een tafel.**
Vul de antwoorden in.

1 × ..... = ...
2 × ..... = ...
3 × ..... = ...
4 × ..... = ...
5 × ..... = ...
6 × ..... = ...
7 × ..... = ...
8 × ..... = ...
9 × ..... = ...
10 × ..... = ...

Kleur de antwoorden in het schema bij opgave 1.

kijk terug

ga naar taak 9 op bladzijde 18

Deze 3 keersommen heb ik vandaag geleerd:

..... × ..... = ... × ..... = ... × ..... = ...

doel 3 TEST-JE

1 Keer om en reken uit.

3 × 8 = 24

8 × 3 = ...

7 × 4 = ...

7 × 6 = ...

7 × 9 = ...

8 × 9 = ...

8 × 5 = ...

2 Reken uit.

×	5	6	7
5			
8			
9			

×	3	4	9
6			
7			
8			

3 Reken uit.

dozen	1	5	6	7	8
eieren	6				

pakjes	1	4	8	9	10
stiften	8				

bossen	1	2	4	5	10
euro	3				

kun je het nu?

doel 4 TEST-JE

1 Reken uit.

Kleur de sommen die je meteen weet groen.
Kleur de sommen die je vlot uitrekent met een strategie geel.
Kleur de sommen die je nog moeilijk vindt blauw.

☐ 4 × 3 = ...	☐ 5 × 5 = ...	☐ 6 × 7 = ...	☐ 7 × 5 = ...
☐ 3 × 6 = ...	☐ 6 × 4 = ...	☐ 8 × 8 = ...	☐ 9 × 4 = ...
☐ 6 × 7 = ...	☐ 4 × 9 = ...	☐ 9 × 8 = ...	☐ 3 × 9 = ...
☐ 5 × 4 = ...	☐ 9 × 3 = ...	☐ 8 × 4 = ...	☐ 7 × 8 = ...
☐ 9 × 10 = ...	☐ 5 × 9 = ...	☐ 7 × 3 = ...	☐ 6 × 9 = ...

2 Reken uit.

×	4	7	9
3			
5			
6			

×	3	6	8
2			
7			
9			

3 Wat staat er onder de vlek?

6 × 8 = ●
● × 8 = 56

10 × ● = 70
● × 7 = 63

● × 7 = 35
6 × 7 = ●

9 × 7 = ●
● × 9 = 63

● × 8 = 80
9 × 8 = ●

7 × ● = 56
8 × ● = 64

kun je het nu? ☺ ☺ ☺

doel 5

▸ Je leert een maandkalender aflezen.

start

Maak de rijtjes af.

zondag – maandag – ..... – ..... – ..... – ..... – .....

donderdag – vrijdag – ..... – ..... – ..... – ..... – .....

hulp

maart						
ma	di	wo	do	vr	za	zo
27	28	1	2	3	4	5
6	7	8	9	10	11	12
13	14	15	16	17	18	19
20	21	22	23 *Jop*	24	25	26
27	28	29	30	31	1	2

Jop is jarig op donderdag 23 maart.

1 **Kijk naar de kalender van mei.**
Op welke dag zijn de kinderen jarig?

mei						
ma	di	wo	do	vr	za	zo
1 begin vakantie	2 Bo	3	4	5	6 Janne	7 einde vakantie
8	9	10	11	12	13	14 Oemar
15	16	17	18	19	20	21
22	23	24	25 Hemel-vaartsdag	26 Nio	27	28
29	30	31 schoolreis	1	2	3	4

Bo is jarig op ..... mei. Dat is een ..... dag.

Janne is jarig op ..... mei. Dat is een ..... dag.

Oemar is jarig op ..... mei. Dat is een ..... dag.

2 **Kijk naar de kalender van mei bij opgave 1.**

De laatste dag van mei is: ..... dag ..... mei.

Op die dag is er een ..... .

De derde dinsdag van mei is ..... mei.

hoe ging het?

3 **Kijk naar de kalender van mei bij opgave 1.**

Mei heeft ..... zaterdagen.

Nio is jarig op ..... mei. Dat is een ..... dag.

De maand mei begint op ..... dag ..... mei.

Dan begint ook de ..... .

De laatste dag van de vakantie is ..... dag ..... mei.

4 **Kijk naar de kalender van mei bij opgave 1.**
Kleur de datum op de kalender:

- 5 mei: Bevrijdingsdag
- 15 mei: studiedag
- 19 mei: sportdag

5 **Maak de kalender van juni af.**

juni						
ma	di	wo	do	vr	za	zo
						4
			8			
12						18
	20					
				30	1	2

kijk terug

ga naar taak 11 op bladzijde 20

Wanneer ben je jarig?

Ik ben jarig op ..... .

Die maand heeft ..... dagen.

doel 5

▸ Je leert met behulp van een maandkalender een datum bepalen.

start

Vul eerst de maanden in die ontbreken.

Omcirkel dan de maand waarin jij jarig bent. Schrijf de dag erbij.

maart	januari	februari	.....
april	december	november	.....
mei	juli	september	.....

hulp

maart						
ma	di	wo	do	vr	za	zo
27	28	1	2	3	4	5
6	7	8	9	10	11	12 Anne
13	14	15	16	17	18	19
20	21	22	23 Jop	24	25	26
27	28	29	30	31	1	2

Vandaag is het 9 maart.
Anne is over 3 dagen jarig.
Dat is op zondag 12 maart.
Jop is over 2 weken jarig.
Dat is op donderdag 23 maart.

1 **Kijk naar de kalender van april.**

april						
ma	di	wo	do	vr	za	zo
27	28	29	30	31	1	2
3	4	5	6	7	8	9
10	11	12	13	14	15	16
17	18	19	20	21 Boris	22	23
24	25	26	27	28	29	30

Vandaag is het 15 april.

Morgen is het: ..... dag ..... april.

Gisteren was het: ..... dag .....

Overmorgen is het: ..... dag .....

Eergisteren was het: ..... dag .....

2 **Kijk naar de kalender van april bij opgave 1.**

Over 1 week is het ..... dag .....

Over 2 weken is het ..... dag .....

1 week geleden was het ..... 2 weken geleden was het .....

hoe ging het?

3 ★ **Kijk naar de kalender van april bij opgave 1.**
Schrijf de eerste letter van de naam bij de goede datum.

Boris is jarig op 21 april.
Elsa is 2 dagen voor Boris jarig.
Adil is 2 weken voor Boris jarig.
Loes is 4 dagen na Boris jarig.
Tess is 1 week voor Loes jarig.

4 ★★ **Kijk naar de kalender van oktober.**

oktober						
ma	di	wo	do	vr	za	zo
27	28	29	30	1	2	3
●	5	6	●	●	9	10
●	12	13	●	●	●	17
18	19	20	21	22	●	24
25	26	27	28	29	30	31

Vandaag is het dinsdag 19 oktober.

Het schoolfeest is over 3 dagen op ..... dag ..... oktober.

Eergisteren was mijn moeder jarig. Dat was op ..... dag .....

Over 11 dagen komen opa en oma. Dat is op ..... dag .....

10 dagen geleden was ik naar de film. Dat was op ..... dag .....

5 ▶▶ ★★★ **Kijk naar de kalender van oktober bij opgave 4.**

Welke datum is het op de tweede maandag van deze maand? .....

Welke datum is het op de vierde zaterdag van deze maand? .....

Hoeveel dagen duurt deze maand nog? ..... dagen

Hoe heet de volgende maand? .....

kijk terug

ga naar taak 12 op bladzijde 22

▶▶ **Zoek iemand in je klas die in dezelfde maand jarig is als jij.**
Hoeveel dagen zitten er tussen jullie verjaardagen?

Ik ben jarig op .....

..... is jarig op ..... Daar zitten ..... dagen tussen.

doel

▸ Je leert voorspellen hoe de uitslag van een figuur eruit zal zien.

1 Hoe kan de uitslag eruitzien?

Bedenk zelf kleuren bij de laatste uitslag.

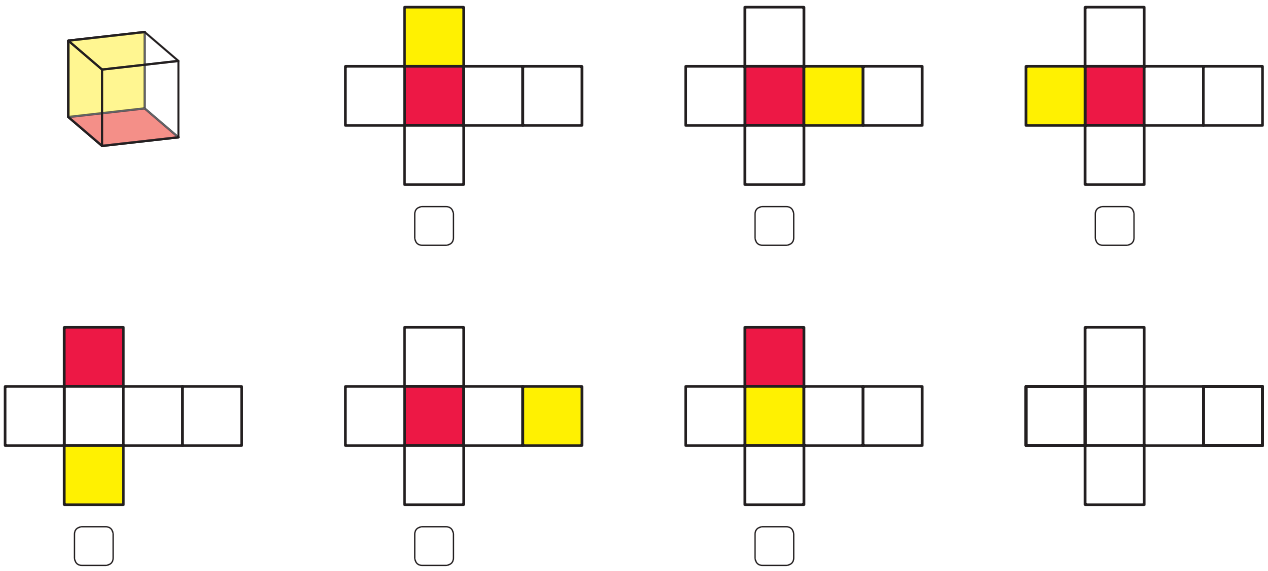

2 Maak de uitslag af.

Teken de lijnen op de uitslag.
Kleur met rood, geel of blauw.

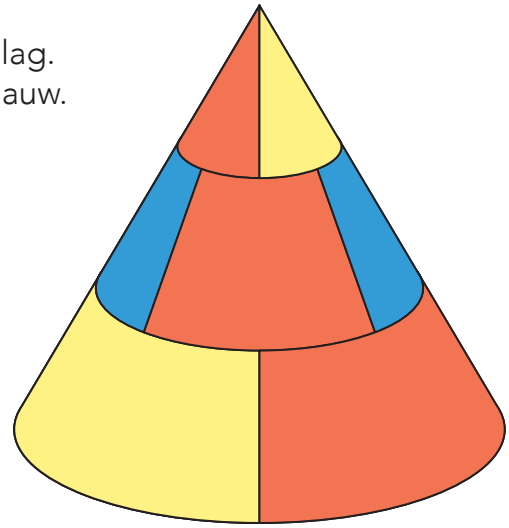

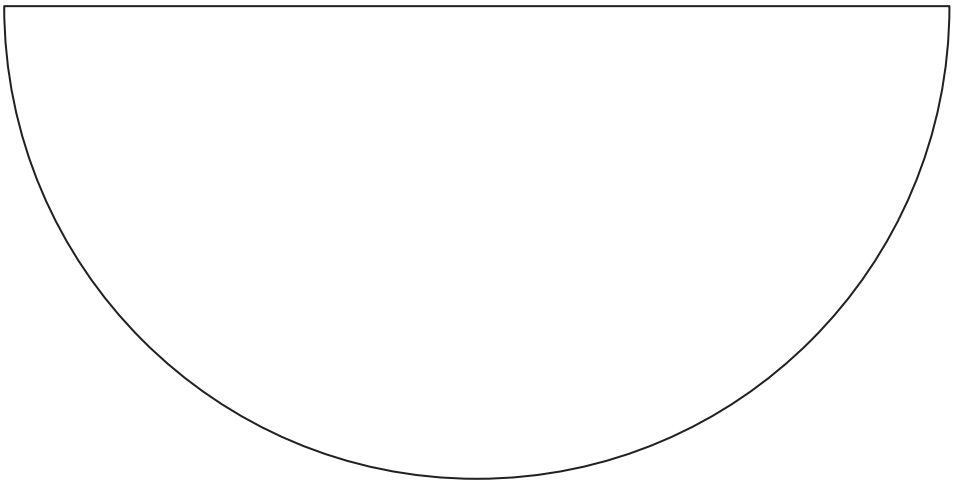

3 **Maak een dobbelsteen die klopt.**
Teken de andere stippen op de goede plaats.
Controleer het met je printblad.
Knip uit en vouw de uitslag in elkaar.

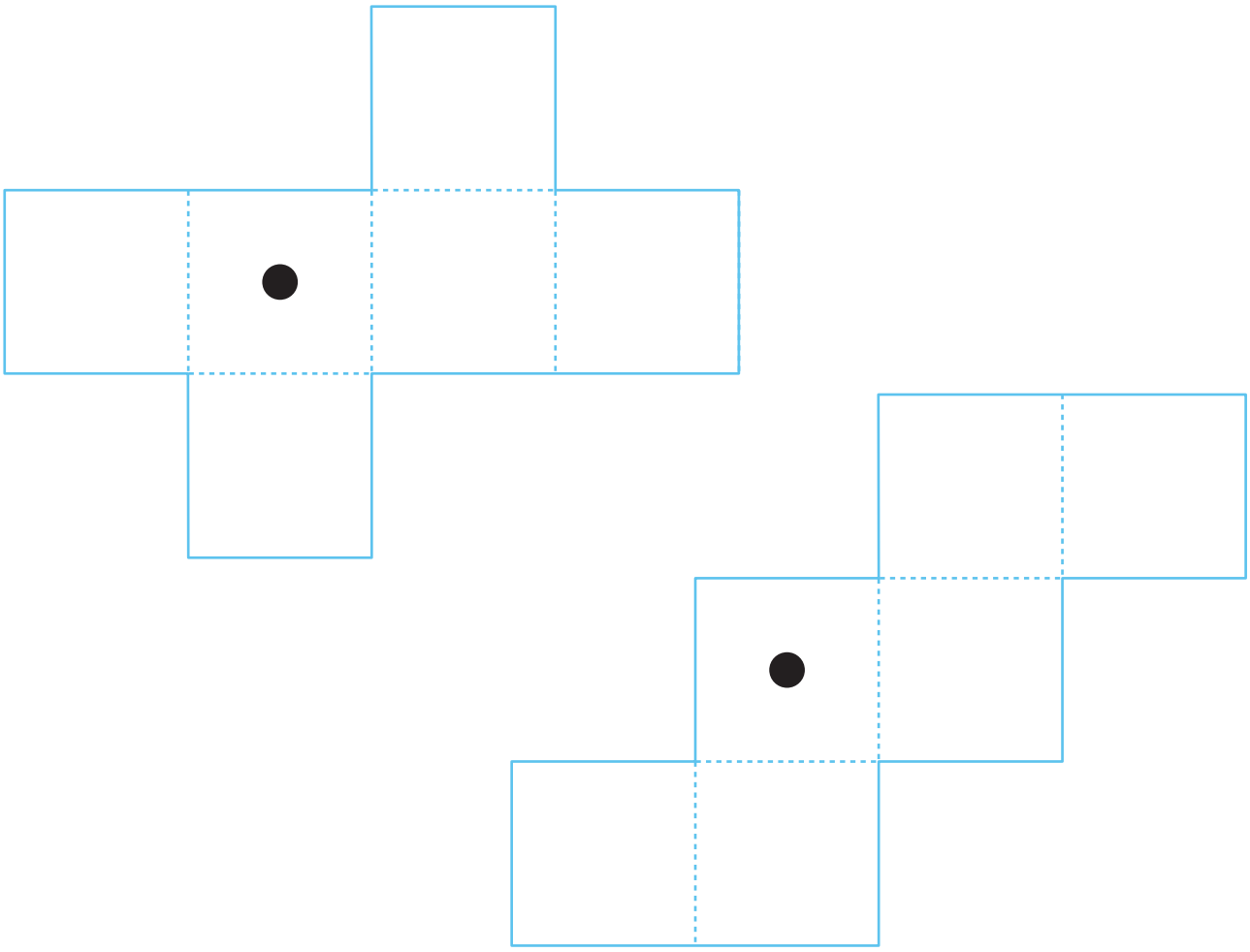

kijk terug

Teken de figuren op het goede vlak.

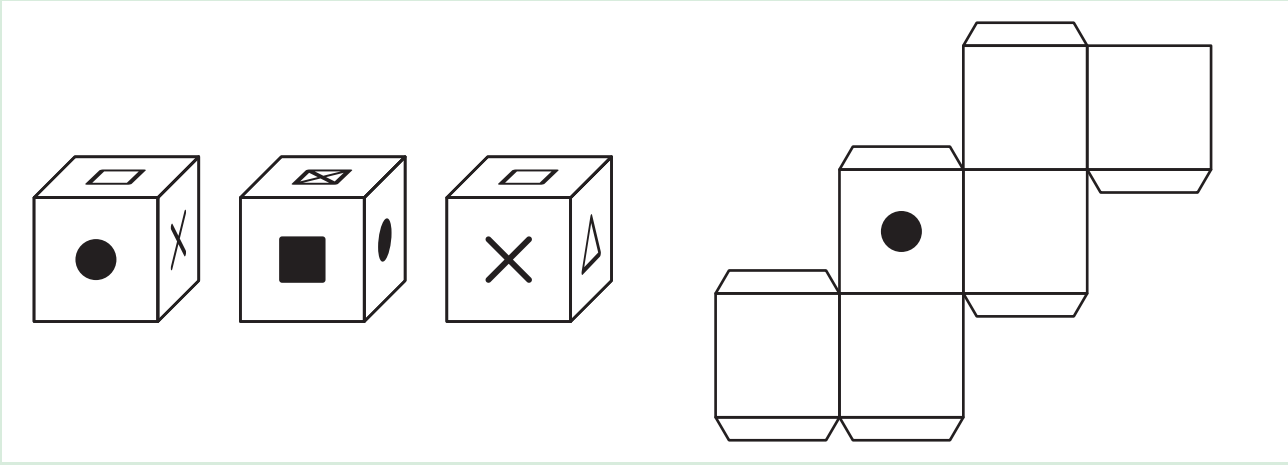

KLAAR VOOR DE TOETS?

1a **Reken uit.**
Je mag de getallenlijn gebruiken.

53 + 15 = ...

36 + 27 = ...

48 + 34 = ...

29 + 26 = ...

1b **Welke som hoort erbij? Hoeveel samen?**
Je mag de getallenlijn gebruiken.

som: .....

antwoord: ..... stickers



som: .....

antwoord: ..... gram

2a **Welke som hoort erbij? Hoeveel over?**
Je mag de getallenlijn gebruiken.

Sam heeft 65 euro. Hij geeft 27 euro uit. Hoeveel geld heeft Sam over?

som: .....

antwoord: ..... euro

Lotte heeft 43 knikkers. Zij verliest er 26. Hoeveel knikkers heeft Lotte over?

som: .....

antwoord: ..... knikkers.

2b **Reken uit.**
Je mag de getallenlijn gebruiken.

78 – 46 = ...

53 – 27 = ...

91 – 36 = ...

45 – 29 = ...

3a **Schrijf de som op en reken uit.**

2 × 5 = ... – 1× meer → 3 × 5 = 15

2 × 6 = ... – 1× meer → .....

5 × 3 = ... – 1× meer → .....

5 × 8 = ... – 1× meer → .....

..... ← 1× minder – 10 × 5 = ...

..... ← 1× minder – 10 × 7 = ...

..... ← 1× minder – 5 × 6 = ...

..... ← 1× minder – 5 × 9 = ...

3b **1 meer of 1 minder?**
Schrijf de hulpsom op en reken uit.

..... 3 × 7 = ...

..... 4 × 3 = ...

..... 6 × 6 = ...

..... 9 × 4 = ...

..... 4 × 5 = ...

..... 9 × 8 = ...

4a **Reken uit.**

6 × 7 = ... – 1× meer → 7 × 7 = ... – 1× meer → 8 × 7 = ...

6 × 8 = ... – 1× meer → 7 × 8 = ... – 1× meer → 8 × 8 = ...

ga verder

KLAAR VOOR DE TOETS?

4b **Keer om en reken uit.**

....

7 × 4 = ... 8 × 5 = ... 7 × 9 = ...

....

8 × 3 = ... 7 × 6 = ... 7 × 5 = ...

4c **Schrijf bij elk plaatje 2 keersommen.**
Reken uit.



sommen:

..... = ...

..... = ...

antwoord: ..... tegels



sommen:

.....

.....

antwoord: ..... tegels



sommen:

.....

.....

antwoord: ..... tegels

5 **Maak het bedrag met zo min mogelijk munten.**
Kleur.

kun je het nu?

doel 5 TEST-JE

1 ○ **Kijk naar de kalender van maart.**

maart					
ma	28	7	14	21	28
di	1	8	15	22	29
wo	2	9	16	23	30
do	3	10	17	24	31
vr	4	11	18	25	1
za	5	12	19	26	2
zo	6	13	20	27	3

Vandaag is het ..... dag ..... maart.

Over 6 dagen is het ..... dag ..... .

5 dagen geleden was het ..... dag ..... .

Overmorgen is het ..... dag ..... .

Eergisteren was het ..... dag ..... .

Over 3 dagen is het lente! Dat is op ..... dag ..... .

2 ○ **Schrijf de eerste letter van de namen van de kinderen bij de goede datum.**

juni						
ma	di	wo	do	vr	za	zo
30	31	1	2	3	4	5
6	7	8	9	10	11	12
13	14	15	16	17	18	19
20	21	22	23	24	25	26
27	28	29	30	1	2	3

Bas is jarig op ..... dag 3 juni.

Kim is jarig op ..... dag 12 juni.

Abdel is jarig op ..... dag 16 juni.

Levi is jarig op ..... dag 28 juni.

3 ○ **Kijk naar de kalender van juni bij opgave 2.**

Vandaag is het 18 juni.

Over 1 week is er zwemles. Het is dan ..... dag ..... .

Over 10 dagen is de juf jarig. Het is dan ..... dag ..... .

4 dagen geleden was ik ziek, op ..... dag ..... .

kun je het nu? ☺ ☺ ☺

doel 1 HERHALEN

1 **Reken uit met rijgen met te veel op de getallenlijn.**

34 + 19 = ...

25 + 18 = ...

64 + 29 = ...

53 + 38 = ...

2 **Welke som?**
Schrijf ook het antwoord op.

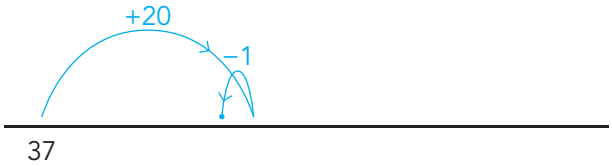

.....

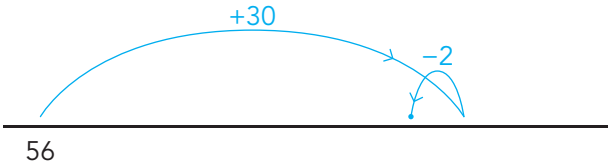

.....

3 **Welke som hoort erbij? Hoeveel kost het samen?**

som: .....

antwoord: ..... euro

som: .....

antwoord: ..... euro

doel 2 HERHALEN

1 **Reken uit met rijgen met te veel op de getallenlijn.**

34 – 19 = ...

35 – 18 = ...

64 – 29 = ...

53 – 38 = ...

2 **Welke som?**
Schrijf ook het antwoord op.

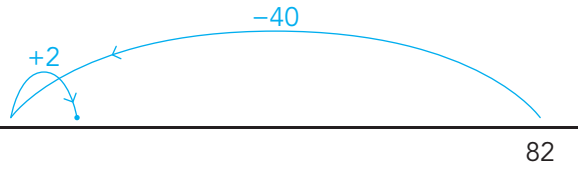

som: .....

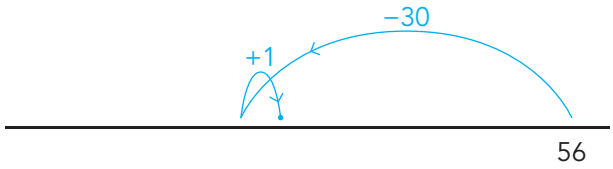

som: .....

3 **Welke som hoort erbij? Wat is de nieuwe prijs?**

nu 19 euro korting

som: .....

antwoord: ..... euro

nu 18 euro korting

som: .....

antwoord: ..... euro

nu 28 euro korting

som: .....

antwoord: ..... euro

ga naar het rekenplein op bladzijde 36

REKENPLEIN

Geheimtaal.
Reken uit met te veel.

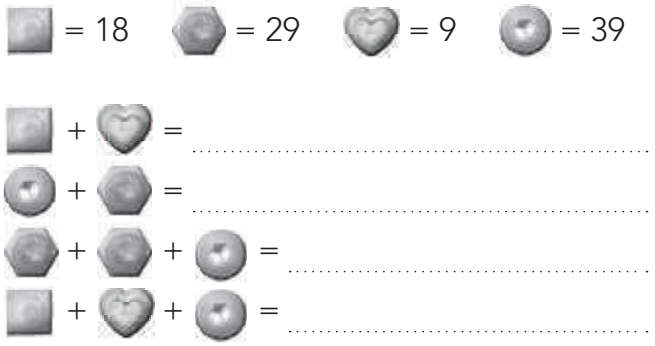

..... = 77

Pijlen gooien.

Rik gooit met 3 pijlen 79 punten.
In welke vakken zitten zijn pijlen?

.....

Wouter mag niet boven de 95 punten komen.
Hij heeft al 1 pijl in de 50 en 1 in de 28 gegooid.
In welke vakjes mag hij nog gooien?

.....

Wat is de hoogste score die je kunt gooien
met 3 pijlen in 3 verschillende vakken?

.....

Maak de som en kleur.

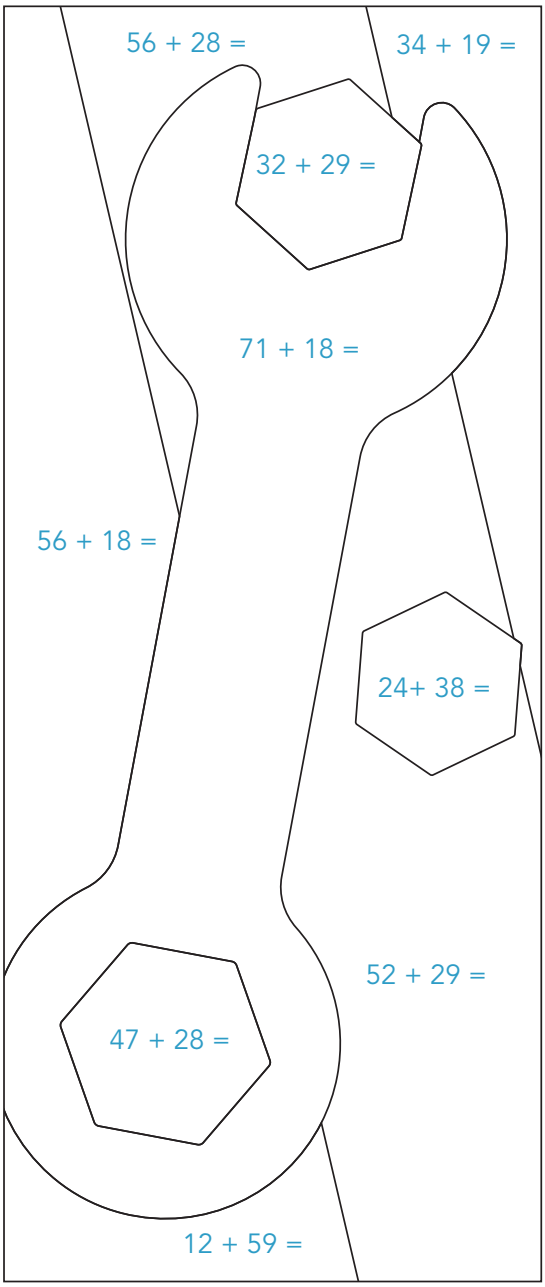

50 - 55	71 - 75
56 - 60	76 - 80
61 - 65	81 - 85
66 - 70	86 - 90

Met welke weg houd je het meeste geld over?

Teken en reken uit.
Hoeveel geld houd je over?

→ 9 – 19 – 8

– ☐ – ☐ –

28 – 29 – 39

– ☐ – ☐ –

38 – 29 – 9

– ☐ – ☐ =

18 – 8 =

Maak zelf een weg.
Hoeveel geld houd je over?

→ 9 – 19 – 8

– ☐ – ☐ –

28 – 29 – 39

– ☐ – ☐ –

38 – 19 – 9

– ☐ – ☐ =

18 – 8 =

Hoeveel blijft er over?

– 9	☐	☐	☐
– 18	☐	☐	☐
– 29	☐	☐	☐
– 8	☐	☐	☐

Welk getal staat er onder het rondje?

En welk getal onder het vierkantje?

○ + ▢ = 47 ○ = ☐
○ – ▢ = 9 ▢ = ☐

○ + ▢ = 97 ○ = ☐
○ – ▢ = 39 ▢ = ☐

○ + ▢ = 96 ○ = ☐
○ – ▢ = 20 ▢ = ☐

doel 3 HERHALEN

1 **Reken met 1 × minder.**
Schrijf de steunsom in de denkwolk.

10 × 7 = 70

9 × 7 = ...

5 × 7 = 35

4 × 7 = ...

9 × 3 = ...

4 × 6 = ...

9 × 8 = ...

4 × 4 = ...

9 × 6 = ...

4 × 8 = ...

2 **Reken uit.**

×	5	8	10
4			
6			
7			

3 **Reken uit.**

auto	1	2	5	7	8
mensen	4				

groepje	1	3	6	9	10
kinderen	6				

doel 4 HERHALEN

1 Reken uit.

2 × 5 = ...	3 × 5 = ...	4 × 3 = ...	5 × 8 = ...
2 × 9 = ...	3 × 8 = ...	4 × 9 = ...	5 × 6 = ...
2 × 7 = ...	3 × 6 = ...	4 × 7 = ...	5 × 9 = ...
2 × 4 = ...	3 × 7 = ...	4 × 8 = ...	5 × 7 = ...
2 × 8 = ...	3 × 9 = ...	4 × 6 = ...	5 × 4 = ...

2 Reken uit.

6 × 4 = ...	7 × 4 = ...	8 × 7 = ...	9 × 3 = ...
6 × 6 = ...	7 × 7 = ...	8 × 4 = ...	9 × 6 = ...
6 × 8 = ...	7 × 3 = ...	8 × 9 = ...	9 × 8 = ...
6 × 9 = ...	7 × 6 = ...	8 × 8 = ...	9 × 4 = ...
6 × 7 = ...	7 × 9 = ...	8 × 5 = ...	9 × 7 = ...

3 Wat staat er onder de vlek?

2 × ● = 16	10 × ● = 70	● × 7 = 35
● × 8 = 56	● × 7 = 21	5 × ● = 40
● × 6 = 36	5 × ● = 25	9 × ● = 18
3 × ● = 15	9 × ● = 45	● × 4 = 16

4 Hoeveel heb je nodig?

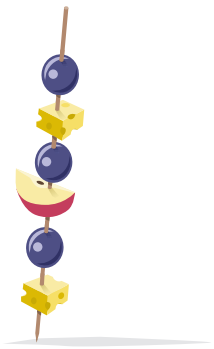

	appel	kaas	druif
1 prikker	1	2	3
2 prikkers			
5 prikkers			
10 prikkers			

ga naar het rekenplein op bladzijde 40

REKENPLEIN

Maak de slinger af.

1 × 3 ☐ – 1 ☐ × 3 ☐ – 1 ☐ × 3 ☐ – 1 ☐

1 × 5 ☐ – 3 ☐ × 5 ☐ – 3 ☐ × 5 ☐ – 3 ☐

1 × 6 ☐ – 4 ☐ × 6 ☐ – 4 ☐ × 6 ☐ – 4 ☐

Hoeveel dagen?
1 week is 7 dagen.

2 weken is ..... dagen
3 weken is ..... dagen
4 weken is ..... dagen
5 weken is ..... dagen
6 weken is ..... dagen
7 weken is ..... dagen
8 weken is ..... dagen
9 weken is ..... dagen
10 weken is ..... dagen

Reken uit.

Voor 7 kinderen:
7 × broek ..... euro
7 × shirt ..... euro
7 × kousen ..... euro

Voor 8 kinderen:
8 × broek ..... euro
8 × shirt ..... euro
8 × kousen ..... euro

Gooi en maak sommen.

6 × ..... = ...
6 × ..... = ...
6 × ..... = ...

7 × ..... = ...
7 × ..... = ...
7 × ..... = ...

8 × ..... = ...
8 × ..... = ...
8 × ..... = ...

Reken uit.
Vul in.

×	3		6
2		8	
5			
			60

×	3		8
2		12	
7			
			72

Reken uit.
Welke letters horen erbij? Vul in.

1 **7 × 7 =** .....
2 **8 × 9 =** .....
3 **6 × 9 =** .....
4 **5 × 8 =** .....
5 **7 × 8 =** .....
6 **7 × 9 =** .....
7 **8 × 7 =** .....
8 **8 × 5 =** .....
9 **4 × 10 =** .....
10 **8 × 8 =** .....

1	2	3	4	5	6	7	8	9	10

40 = e
49 = t
50 = i
54 = f
56 = l
60 = s
63 = k
64 = d
72 = a

doel 5 HERHALEN

1 **Kijk naar de kalender van mei.**
Op welke dag zijn de kinderen jarig?

mei						
ma	di	wo	do	vr	za	zo
29	30	1 Max	2	3	4	5
6	7	8	9	10 Noor	11	12
13 Fatima	14	15	16	17	18	19
20	21	22	23	24	25	26 Pim
27	28	29	30	31	1	2

Max is jarig op ..... dag ..... mei.

Noor is jarig op ..... dag .....

Fatima is jarig op ..... dag .....

Pim is jarig op ..... dag .....

2 **Kijk naar de kalender van mei bij opgave 1.**

Tom is 4 dagen voor Noor jarig. Tom is jarig op ..... mei.

Kai is 2 weken na Noor jarig. Kai is jarig op .....

Fleur is op de laatste dag van de maand jarig. Fleur is jarig op .....

Laila is op de laatste dinsdag jarig. Laila is jarig op .....

3 **Kijk naar de kalender van maart.**

maart					
ma	28	7	14	21	28
di	1	8	15	22	29
wo	2	9	16	23	30
do	3	10	17	24	31
vr	4	11	18	25	1
za	5	12	19	26	2
zo	6	13	20	27	3

Vandaag is het 16 maart.

Over 4 dagen is het ..... dag

.....

5 dagen geleden was het ..... dag

.....

Morgen is het ..... dag

.....

Gisteren was het ..... dag

.....

REKENPLEIN

Los de raadsels op.
Het is 2023.
Mark is jarig op zondag 15 januari.
Sanne is jarig op maandag 27 maart.

2024 is een schrikkeljaar.
Op welke dag zijn Mark en Sanne in 2024 jarig?

Mark op ..... dag 15 januari.

Sanne op ..... dag 27 maart.

Op welke dag zijn Mark en Sanne in 2025 jarig?

Mark op ..... dag 15 januari.

Sanne op ..... dag 27 maart.

Hamid is jarig op 29 februari.
Hij is nu 49 jaar oud.
Hoeveel verjaardagen heeft Hamid echt op zijn geboortedag kunnen vieren?

.....



Paul is piloot.
Hij vertrekt op 1 december.
Hij is steeds 3 dagen weg (×)
en daarna 2 dagen vrij (o).

december						
ma	di	wo	do	vr	za	zo
30	1 vertrek	2	3	4	5 Sinterklaas	6
7	8	9	10	11	12	13
14	15	16	17	18	19	20
21	22	23	24	25 eerste kerstdag	26 tweede kerstdag	27
28	29	30	31 oudjaar	1 Nieuwjaar	2	3

Heeft Paul met Sinterklaas vrij?

ja | nee

Heeft Paul op eerste kerstdag vrij?

ja | nee

En op tweede kerstdag?

ja | nee

Is Paul met oudjaar en Nieuwjaar vrij?

ja | nee

Op welke datum in januari heeft Paul zijn eerste vrije dag?

.....

Wanneer zijn de kinderen jarig?
Kleur de datum in de goede kleur.

Anne is jarig op de tweede woensdag van de maand.
Bob is 1 week later jarig.
Koen is in de laatste week jarig, maar niet tegelijk met iemand anders.
Daan is 13 dagen na Bob jarig.
Evi is 3 weken na Anne jarig.

september						
ma	di	wo	do	vr	za	zo
31	1	2	3	4	5	6
7	8	9	10	11	12	13
14	15	16	17	18	19	20
21	22	23	24	25	26	27
28	29	30	1	2	3	4

HOE VERDWIJN JE NIET IN MINLAND?

1

Reken uit.

Opa Bram is 68 jaar.
Hij neemt 2 pillen van 7 jaar.

Hoe oud wordt opa Bram? .....

Opa Bram wil niet in minland verdwijnen.

Hoeveel pillen mag hij dan pakken? .....

Oma Noor is 65 jaar.
Ze neemt pillen van 10 jaar.
Ze wil weer 0 jaar worden, zoals een baby.

Hoeveel pillen moet ze nemen? .....

Oma Isabel is 81 jaar.
Ze neemt pillen van 4 jaar.
Ze maakt een rekenfout en verdwijnt in minland.

Hoeveel pillen heeft ze er dan in ieder geval gepakt?

.....

2

Vul in.
Bedenk een verhaalsom.
Gebruik pillen van 12 jaar.

.....

.....

.....

.....

Geef de som aan een ander.
De ander lost de som op.
Bespreek samen het antwoord.
Klopt het?

EUREKA!

3

Maak een etiket.
Ontwerp een etiket voor een potje pillen.

4

Vul in.
Bedenk sommen bij jouw etiket.

leeftijd	aantal pillen	nieuwe leeftijd

MIJN EUREKA!

Dit heb ik ontdekt:

.....

.....

.....

.....